AVALIAÇÕES DIAGNÓSTICAS



ALFABETIZE.COM

ESCOLA: _____

NOME: _____ TURMA: _____

DATA: ____/____/____ PROFESSORA: _____

ALFABETIZE.COM

1) MARQUE A ALTERNATIVA EM QUE APARECEM APENAS LETRAS:

☐ 

☐ 

☐ 

☐ 

2)VEJA A FIGURA ABAIXO:



QUAL É O NOME DO ANIMAL?

☐ VACA

☐ VASO

☐ PACA

☐ VASSOURA

ESCOLA: _____

NOME: _____TURMA: _____

DATA: _____/_____/_____ PROFESSORA: _____

ALFABETIZE.COM

3) QUANTAS SÍLABAS (PEDAÇOS) TEM A PALAVRA **CAVALO**:

- ☐ 1
- ☐ 2
- ☐ 3
- ☐ 4

4) OBSERVE A FIGURA ABAIXO:



MARQUE AS PALAVRAS QUE TEM A MESMA SÍLABA INICIAL DA FIGURA ACIMA

- ☐ CABELO - POTE
- ☐ MENINA - PATO
- ☐ CASA - CAMELO
- ☐ RODA - MATO

ESCOLA: _____

NOME: _____TURMA: _____

DATA: _____/_____/_____ PROFESSORA: _____

ALFABETIZE.COM

5) MARQUE A ALTERNATIVA EM QUE A FRASE ESTÁ ESCRITA CORRETAMENTE:

- ☐ OCAFÉESTÁ QUENTE.
- ☐ OCAFÉESTÁQUENTE.
- ☐ OCAFÉ ESTÁQUENTE.
- ☐ O CAFÉ ESTÁ QUENTE.

6)OBSERVE AS PALAVRAS:

PETECA PATETA

QUAL PARTE DAS PALAVRAS ACIMA TEM O MESMO SOM:

- ☐ INÍCIO
- ☐ MEIO
- ☐ FIM
- ☐ NENHUMA

ESCOLA: _____

NOME: _____TURMA: _____

DATA: ____/____/____ PROFESSORA: _____

ALFABETIZE.COM

7) MARQUE A ALTERNATIVA EM QUE A PALAVRA ESTÁ ESCRITA CORRETAMENTE:

- ☐ PNLA.
- ☐ PANLA.
- ☐ PANELA.
- ☐ AEA

8) VEJA A CENA ABAIXO:



MARQUE A ALTERNATIVA QUE CONTA O QUE ACONTECE NA CENA:

- ☐ O MENINO CORRE COM O LIVRO.
- ☐ O MENINO DORME COM O LIVRO.
- ☐ O MENINO LÊ UM LIVRO.
- ☐ O MENINO BRINCA COM O LIVRO.

ESCOLA: _____

NOME: _____TURMA: _____

DATA: ____/____/____ PROFESSORA: _____

ALFABETIZE.COM

9) LEIA O TEXTO ABAIXO:



QUE TIPO DE TEXTO É ESSE?

- ☐ AGENDA.
- ☐ CALENDÁRIO.
- ☐ CONVITE
- ☐ LISTA

10) DE ACORDO COM O TEXTO DA QUESTÃO ANTERIOR, O QUE VAI ACONTECER?

- ☐ UM PASSEIO
- ☐ UMA FESTA DE ANIVERSÁRIO
- ☐ UM PIQUENIQUE.
- ☐ UM JOGO

ESCOLA: _____

NOME: _____TURMA: _____

DATA: ____/____/____ PROFESSORA: _____

ALFABETIZE.COM

1) NO JARDIM DA ESCOLA TEM MUITAS FLORES, OS ALUNOS PEGARAM SUAS RÉGUAS PARA VER O TAMANHO DELAS:



NESTA SITUAÇÃO OS NÚMEROS INDICAM:

- ☐ UMA ORDEM.
- ☐ UMA MEDIDA.
- ☐ UMA QUANTIDADE.
- ☐ UM CÓDIGO.

2) MANUELA GANHOU UMA CARTELA COM OS SEGUINTES NÚMEROS:

13	10	42
5	82	22

QUAL É O NÚMERO MAIOR?

- ☐ 10
- ☐ 22
- ☐ 82
- ☐ 5

ESCOLA: _____

NOME: _____TURMA: _____

DATA: ____/____/____ PROFESSORA: _____

ALFABETIZE.COM

3) OBSERVE A RETA NUMÉRICA:



QUAL NÚMERO ESTÁ ESCONDIDO NO CORAÇÃO?

- ☐ 22.
- ☐ 23.
- ☐ 25
- ☐ 26

4) LARISSA, CLARA E LAURA COLECIONAM BONECAS



LARISSA



CLARA



LAURA

QUEM TEM MAIS BONECAS

- ☐ TODAS TEM A MESMA QUANTIA
- ☐ LARISSA
- ☐ LAURA
- ☐ CLARA

ESCOLA: _____

NOME: _____TURMA: _____

DATA: ____/____/____ PROFESSORA: _____

ALFABETIZE.COM

5) GUSTAVO MARCOU NO CALENDÁRIO O DIA EM QUE COMEMORAMOS A PÁSCOA :



Abril 2023

Domingo	Segunda-feira	Terça-feira	Quarta-feira	Quinta-feira	Sexta-feira	Sábado
						1
2	3	4	5	6	7 Paixão de Cristo	8
9 Domingo de Páscoa	10	11	12	13	14	15
16	17	18	19	20	21 Tiradentes	22
23	24	25	26	27	28	29
30						

©MichelZbinden.com

DE ACORDO COM ESTE CALENDÁRIO, EM QUAL DIA DA SEMANA SERÁ A PÁSCOA?

- ☐ SEGUNDA-FEIRA.
- ☐ SÁBADO.
- ☐ DOMINGO
- ☐ SEXTA-FEIRA

ESCOLA: _____

NOME: _____TURMA: _____

DATA: _____/_____/_____ PROFESSORA: _____

ALFABETIZE.COM

6) OBSERVE AS ÁRVORES ABAIXO:



QUAL É A ORDEM CRESCENTE DESSAS ÁRVORES .

☐ 

☐ 

☐ 

☐ 

ESCOLA: _____

NOME: _____TURMA: _____

DATA: _____/_____/_____ PROFESSORA: _____

7) OBSERVE O GRÁFICO ABAIXO COM OS ESPORTES PREFERIDOS DOS ALUNOS:

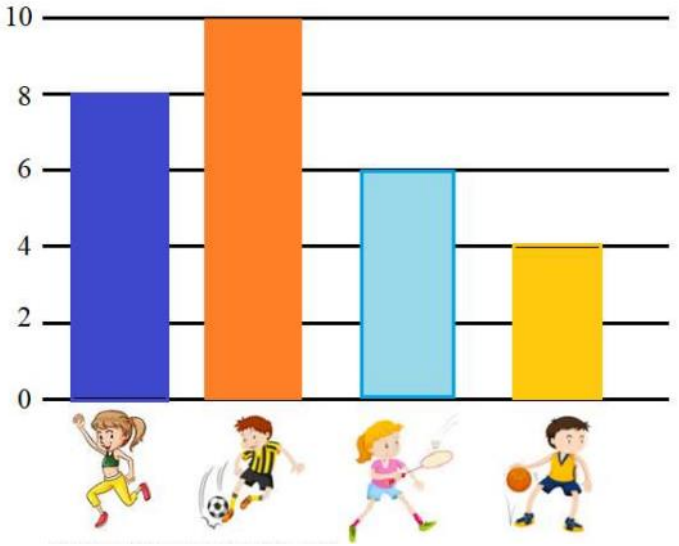

QUAL FOI O ESPORTE COM MENOS ESCOLHIDO:

- ☐ CORRIDA
- ☐ BASQUETE
- ☐ FUTEBOL
- ☐ TÊNIS

8) RESOLVA A OPERAÇÃO ABAIXO:

8 + 4=

QUAL É O RESULTADO?

- ☐ 10
- ☐ 22
- ☐ 12
- ☐ 4

ESCOLA: _____

NOME: _____TURMA: _____

DATA: ____/____/____ PROFESSORA: _____

ALFABETIZE.COM

9) ARTHUR TINHA 15 CARRINHOS E RESOLVEU DOAR 4 CARRINHOS:



APÓS FAZER A DOAÇÃO, COM QUANTOS CARRINHOS ELE FICOU?

- ☐ 10
- ☐ 11
- ☐ 12
- ☐ 13

10) OBSERVE O MATERIAL DOURADO ABAIXO:

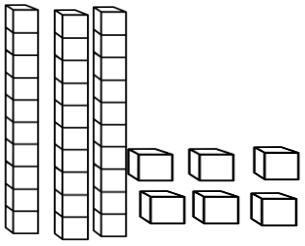

QUAL É O NÚMERO FORMADO?

- ☐ 30
- ☐ 26
- ☐ 16
- ☐ 36

TERMO DE USO

Você está recebendo, este material que foi elaborado por Regina Couto do blog **alfabetize.com**.
A utilização deste material é apenas para USO PESSOAL.
Professores e Pais podem imprimir para utilizar em sua sala de aula, com seus alunos, ou em casa com seus filhos.
Caso queira indicar este arquivo para outro educador compartilhe apenas o link do Blog:
alfabetize.com

O QUE NÃO PODE:

- ✓ Não pode vender ou revender este material;
- ✓ Não pode postar ou distribuir em nenhum site na internet;
- ✓ Não pode distribuir em grupos de Facebook, WhatsApp ou Telegram
- ✓ Não pode arquivar publicamente em drives ou outros semelhantes de forma pública para que outras pessoas possam ter acesso.

DIREITOS DE IMAGENS

Todos os direitos de imagens são de seus autores especificados abaixo:

PROREGINACOUTO

- ✓ NÃO É PERMITIDO Qualquer uso comercial desse material.
- ✓ MATERIAL PROTEGIDO PELOS DIREITOS AUTORAIS CONFORME A LEI Nº 9.610, DE 19 DE FEVEREIRO DE 1998. EVITE PROBLEMAS JURÍDICOS.